DECIMOSEGUNDO SIMULACRO DE APT HUMANIDADES_SUN 2023

Bienvenido(a) SAUCEDO BATALLANOS MARLON NILO
Indicación:
La Evaluación Virtual se rinde una sola vez, por ello es importante que lo finalice.

Seleccione la Especialidad:

ARQUITECTURA

Esté seguro de la especialidad a seleccionar, si ya respondió preguntas y vuelve a seleccio guardaran.

NAVEGACIÓN DE LA EVALUACIÓN VIRTUAL
DECIMOSEGUNDO SIMULACRO DE APTITUD ACADÉMICA Y HUMANIDADES_SUN 2023

1	2	3	4	5	6	7	8	9	10	11	12	13
14	15	16	17	18	19	20	21	22	23	24	25	26
27	28	29	30	31	32	33	34	35	36	37	38	39
40	41	42	43	44	45	46	47	48	49	50	51	52
53	54	55	56	57	58	59	60	61	62	63	64	65
66	67	68	69	70	71	72	73	74	75	76	77	78
79	80	81	82	83	84	85	86	87	88	89	90	91
92	93	94	95	96	97	98	99	100				

Raz. Matemático
Raz. Verbal
Historia del Perú y del Mundo
Geografía
Economía
Educación Cívica
Actualidad
Psicología
Comunicación y Lengua
Literatura
Filosofía
Lógica
Inglés

Finalizar Evaluación

Pregunta 1 - Raz. Matemático
Puntúa como: 8.00

Moisés escribió números en los cuadritos y quería que la suma de los números en cada renglón y cada columna fuera la misma, pero se equivocó en un número. ¿Cuál es el número incorrecto?

9	1	5
3	7	6
4	7	4

- ○ 3
- ○ uno de los 4s
- ○ 5
- ○ uno de los 7s
- ○ 9

Quitar selección

Pregunta 2 - Raz. Matemático
Puntúa como: 8.00

El cubo de la figura de la derecha se construyó utilizando ladrillos iguales. El lado menor de cada uno de los ladrillos mide 4 cm. ¿Cuáles son las dimensiones de cada ladrillo?

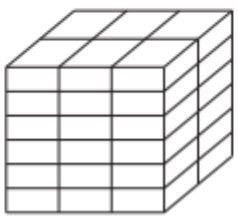

- ○ 4 cm×6 cm×12 cm
- ○ 4 cm×6 cm×16 cm
- ○ 4 cm×8 cm×12 cm
- ○ 4 cm×8 cm×16 cm
- ○ 4 cm×12 cm×16 cm

Quitar selección

Pregunta 3 - Raz. Matemático
Puntúa como: 8.00

Si la proposición compuesta $(\sim p \wedge q) \rightarrow (q \wedge \sim r)$ es falsa, los valores de verdad de p, q y r son respectivamente.

- ○ FFV
- ○ VVV
- ○ FVV
- ○ FVF
- ○ FFF

Quitar selección

2h 53m 50s

Pregunta 4 - Raz. Matemático
Puntúa como: 8.00

En la siguiente distribución, calcule el valor de x.

34 (16) 22
25 (15) 15
64 (38) 27
27 (x) 81

- ○ 25
- ○ 34
- ○ 22
- ○ 15
- ○ 18

Quitar selección

Pregunta 5 - Raz. Matemático
Puntúa como: 8.00

Si se afirma que:
- Los ingenieros son profesionales.
- Algunas mujeres no son profesionales.

Determine la respuesta correcta.

- ○ Todas las mujeres son ingenieros.
- ○ Ningún ingeniero es mujer
- ○ Ninguna mujer es ingeniero.
- ○ Ciertas mujeres no son ingenieras.
- ○ Ninguna no mujer es no ingeniero

Quitar selección

Pregunta 6 - Raz. Matemático
Puntúa como: 8.00

Se comete un delito y el policía arresta a 4 sospechosos, uno de ellos es culpable y que al ser interrogados formulan las declaraciones siguientes:

Alex: Enrique es el culpable.
Enrique: Juan es el culpable.
Julio: Yo no soy el culpable.
Juan: Enrique miente cuando dice que soy el culpable.

Si tres de ellos mienten, ¿quién es el único veraz?

- ○ Alex
- ○ Enrique
- ○ Julio
- ○ Juan
- ○ Ninguno

Quitar selección

Pregunta 7 - Raz. Matemático
Puntúa como: 8.00

Si ubicamos 35 puntos sobre una circunferencia, ¿cuál es el máximo número de cuerdas que se podrán trazar al unir esos puntos?

- ○ 735
- ○ 630
- ○ 561
- ○ 595
- ○ 578

Quitar selección

NAVEGACIÓN DE LA EVALUACIÓN VIRTUAL
DECIMOSEGUNDO SIMULACRO DE APTITUD ACADÉMICA Y HUMANIDADES_SUN 2023

1	2	3	4	5	6	7	8	9	10	11	12	13
14	15	16	17	18	19	20	21	22	23	24	25	26
27	28	29	30	31	32	33	34	35	36	37	38	39
40	41	42	43	44	45	46	47	48	49	50	51	52
53	54	55	56	57	58	59	60	61	62	63	64	65
66	67	68	69	70	71	72	73	74	75	76	77	78
79	80	81	82	83	84	85	86	87	88	89	90	91
92	93	94	95	96	97	98	99	100				

Raz. Matemático
Raz. Verbal
Historia del Perú y del Mundo
Geografía
Economía
Educación Cívica
Actualidad
Psicología
Comunicación y Lengua
Literatura
Filosofía
Lógica
Inglés

2h 53m 50s

Pregunta 8 - Raz. Matemático
Puntúa como: 8.00

Si el producto de 7 por N termina en 166, halle las tres últimas cifras N por 357

- ◯ 446
- ◯ 646
- ◯ 466
- ◯ 666
- ◯ 444

Quitar selección

Pregunta 9 - Raz. Matemático
Puntúa como: 8.00

La hija de Maribel está casada con Raúl y este, a su vez, es abuelo de Joel. Nancy es madre de Daniela y, a la vez, es abuela de Joel. Si Carlos está casado con Maribel y Nancy es su única hija, ¿cuál es el parentesco familiar de Daniela con Carlos?

- ◯ bisnieta
- ◯ hija
- ◯ nieta
- ◯ sobrina
- ◯ nuera

Quitar selección

Pregunta 10 - Raz. Matemático
Puntúa como: 8.00

Si el 2 de febrero del año 2012 fue jueves, ¿qué día de la semana será el 2 de febrero del año 2024?

- ◯ martes
- ◯ jueves
- ◯ domingo
- ◯ viernes
- ◯ lunes

Quitar selección

Pregunta 11 - Raz. Matemático
Puntúa como: 8.00

De 120 universitarios se sabe que 30 son futbolistas y basquetbolistas, los tenistas no son futbolistas ni basquetbolistas, 60 no son futbolistas y 70 no son basquetbolistas. Si 35 no practican ninguno de estos deportes, ¿cuántos son solo basquetbolistas?

- ◯ 20
- ◯ 15
- ◯ 25
- ◯ 30
- ◯ 10

Quitar selección

Pregunta 12 - Raz. Matemático
Puntúa como: 8.00

2h 53m 50s

NAVEGACIÓN DE LA EVALUACIÓN VIRTUAL
DECIMOSEGUNDO SIMULACRO DE APTITUD ACADÉMICA Y HUMANIDADES_SUN 2023

1	2	3	4	5	6	7	8	9	10	11	12	13
14	15	16	17	18	19	20	21	22	23	24	25	26
27	28	29	30	31	32	33	34	35	36	37	38	39
40	41	42	43	44	45	46	47	48	49	50	51	52
53	54	55	56	57	58	59	60	61	62	63	64	65
66	67	68	69	70	71	72	73	74	75	76	77	78
79	80	81	82	83	84	85	86	87	88	89	90	91
92	93	94	95	96	97	98	99	100				

Raz. Matemático
Raz. Verbal
Historia del Perú y del Mundo
Geografía
Economía
Educación Cívica
Actualidad
Psicología
Comunicación y Lengua
Literatura
Filosofía
Lógica
Inglés

En un puesto de fruta había cierto número de mangos. Un cliente compró los 3/5 de los mangos que había más 4 mangos; otro compró los 4/9 de los que quedaba y 2 más; un tercer cliente compró la mitad de lo que quedaba y 7 más; quedando finalmente 2 mangos. ¿Cuántos mangos había inicialmente en el puesto?

- ◯ 100
- ◯ 120
- ◯ 110
- ◯ 94
- ◯ 96

Quitar selección

Pregunta 13 - Raz. Matemático
Puntúa como: 8.00

El niño Arturito que nació en este siglo acaba de cumplir, este año 2020, tantos años como la suma de cifras del año de su nacimiento. ¿Qué edad tiene Arturito?

- ◯ 9
- ◯ 10
- ◯ 11
- ◯ 12
- ◯ 13

Quitar selección

Pregunta 14 - Raz. Matemático
Puntúa como: 8.00

Óscar y Lorena compraron una cierta cantidad de artículos. Cada artículo de Óscar costó tantos nuevos soles como el número de artículos que compró Lorena aumentado en 6, y cada artículo de Lorena costó tantos nuevos soles como el número de artículos de Óscar aumentado en 10. Si se sabe que el gasto de ambos asciende a 718 soles y que la cantidad de artículos comprados por Óscar es el menor número primo posible, determine cuántos artículos compraron entre los dos.

- ◯ 31
- ◯ 34
- ◯ 35
- ◯ 37
- ◯ 42

Quitar selección

Pregunta 15 - Raz. Matemático
Puntúa como: 8.00

. Con la finalidad de recaudar fondos económicos, un grupo de 10 estudiantes acuerdan realizar una rifa. Se plantea el precio de S/5 por cada boleto de la rifa y la emisión de 30 boletos de la rifa para cada uno de los estudiantes. Para mejorar el ingreso económico, se sugiere que, por cada aumento de S/1 en el valor de cada boleto de rifa, se reduzca en 2 unidades el número de boletos de la rifa que le toca a cada estudiante. ¿Cuál es el mayor precio que debe tener cada boleto de la rifa para obtener el máximo ingreso?

- ◯ S/9
- ◯ S/10
- ◯ S/8
- ◯ S/7
- ◯ S/11

NAVEGACIÓN DE LA EVALUACIÓN VIRTUAL
DECIMOSEGUNDO SIMULACRO DE APTITUD ACADÉMICA Y HUMANIDADES_SUN 2023

1	2	3	4	5	6	7	8	9	10	11	12	13
14	15	16	17	18	19	20	21	22	23	24	25	26
27	28	29	30	31	32	33	34	35	36	37	38	39
40	41	42	43	44	45	46	47	48	49	50	51	52
53	54	55	56	57	58	59	60	61	62	63	64	65
66	67	68	69	70	71	72	73	74	75	76	77	78
79	80	81	82	83	84	85	86	87	88	89	90	91
92	93	94	95	96	97	98	99	100				

Raz. Matemático
Raz. Verbal
Historia del Perú y del Mundo
Geografía
Economía
Educación Cívica
Actualidad
Psicología
Comunicación y Lengua
Literatura
Filosofía
Lógica
Inglés

2h 53m 50s

Quitar selección

Pregunta 16 - Raz. Matemático
Puntúa como: 8.00

Si $f(n+1)=f(n)+5$ y además $f(2)=4$. Halle $f(10)$.

- ○ 36
- ○ 40
- ○ 39
- ○ 20
- ○ 44

Quitar selección

Pregunta 17 - Raz. Matemático
Puntúa como: 8.00

Se define en $\mathbb{R}$

$a\#b=2(b\#a)-a$

Calcule el valor de $12\#3$.

- ○ 1
- ○ 6
- ○ 2
- ○ 4
- ○ 3

Quitar selección

Pregunta 18 - Raz. Matemático
Puntúa como: 8.00

En una urna hay 30 fichas numeradas del 1 al 30. Oscar y Leo juegan a extraer fichas. Primero Oscar extrae, al azar, 4 fichas e indica que solo ha obtenido números impares, pero no indica cuáles. ¿Cuántas fichas debe extraer Leo, al azar y como mínimo, para asegurar que la suma de sus números sea mayor a la suma obtenida por Oscar?

- ○ 12
- ○ 13
- ○ 14
- ○ 15
- ○ 16

Quitar selección

Pregunta 19 - Raz. Matemático
Puntúa como: 8.00

Simplifique el siguiente esquema:

$E=[(\sim p \wedge q) \rightarrow (q \rightarrow p)] \wedge p$

- ○ p
- ○ q
- ○ p ∧ q
- ○ p ∨ q
- ○ p → q

Quitar selección

Pregunta 20 - Raz. Matemático
Puntúa como: 8.00

2h 53m 50s

NAVEGACIÓN DE LA EVALUACIÓN VIRTUAL
DECIMOSEGUNDO SIMULACRO DE APTITUD ACADÉMICA Y HUMANIDADES_SUN 2023

1	2	3	4	5	6	7	8	9	10	11	12	13
14	15	16	17	18	19	20	21	22	23	24	25	26
27	28	29	30	31	32	33	34	35	36	37	38	39
40	41	42	43	44	45	46	47	48	49	50	51	52
53	54	55	56	57	58	59	60	61	62	63	64	65
66	67	68	69	70	71	72	73	74	75	76	77	78
79	80	81	82	83	84	85	86	87	88	89	90	91
92	93	94	95	96	97	98	99	100				

Raz. Matemático
Raz. Verbal
Historia del Perú y del Mundo
Geografía
Economía
Educación Cívica
Actualidad
Psicología
Comunicación y Lengua
Literatura
Filosofía
Lógica
Inglés

Halle el número total de hexágonos en la siguiente figura.

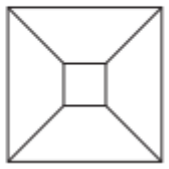

- ○ 16
- ○ 12
- ○ 24
- ○ 18
- ○ 20

Quitar selección

Pregunta 21 - Raz. Matemático

Puntúa como: 8.00

El campanario de la iglesia estuvo tocando durante 87 segundos. Si se escucharon tantas campanadas como 10 veces el tiempo que hay entre campanada y campanada, ¿cuánto tiempo empleó este campanario para tocar 7 campanadas?

- ○ 12 s
- ○ 18 s
- ○ 21 s
- ○ 24 s
- ○ 30 s

Quitar selección

Pregunta 22 - Raz. Matemático

Puntúa como: 8.00

¿Cuántos cerillos se emplearon en total para construir la siguiente figura?

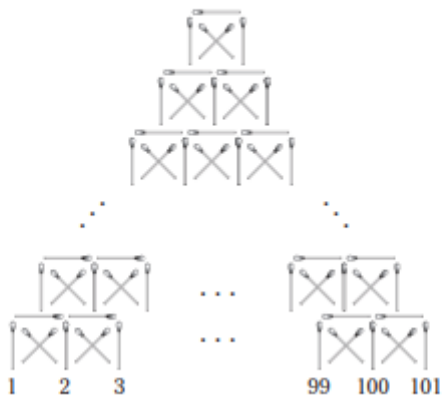

- ○ 10 000
- ○ 16 000
- ○ 25 000
- ○ 20 400
- ○ 20 300

Quitar selección

Pregunta 23 - Raz. Matemático

Puntúa como: 8.00

NAVEGACIÓN DE LA EVALUACIÓN VIRTUAL
DECIMOSEGUNDO SIMULACRO DE APTITUD ACADÉMICA Y HUMANIDADES_SUN 2023

1	2	3	4	5	6	7	8	9	10	11	12	13
14	15	16	17	18	19	20	21	22	23	24	25	26
27	28	29	30	31	32	33	34	35	36	37	38	39
40	41	42	43	44	45	46	47	48	49	50	51	52
53	54	55	56	57	58	59	60	61	62	63	64	65
66	67	68	69	70	71	72	73	74	75	76	77	78
79	80	81	82	83	84	85	86	87	88	89	90	91
92	93	94	95	96	97	98	99	100				

Raz. Matemático
Raz. Verbal
Historia del Perú y del Mundo
Geografía
Economía
Educación Cívica
Actualidad
Psicología
Comunicación y Lengua
Literatura
Filosofía
Lógica
Inglés

2h 53m 50s

Moisés, Henry, Marcos y Antonio tienen como profesiones: ingeniero, médico, abogado y profesor, no necesariamente en ese orden; además residen en Lima, Huancayo, Ica y Chimbote, no necesariamente en ese orden. Se sabe que:
- Antonio no vive en Huancayo ni en Ica.
- El médico reside en Lima.
- Marcos no reside en Lima y es ingeniero.
- Moisés vive en Chimbote.
- El abogado vive en Huancayo.

¿Qué profesional vive en Chimbote?

- ○ El médico
- ○ El profesor
- ○ El abogado
- ○ El ingeniero
- ○ El policía

Quitar selección

Pregunta 24 - Raz. Matemático
Puntúa como: 8.00

Se define la siguiente operación: $a*b=\frac{ab}{10}$
Siendo a^{-1} el elemento inverso de a.
Halle el valor de: $V=20^{-1}-50^{-1}$

- ○ 4
- ○ 2
- ○ –3
- ○ 5
- ○ 3

Quitar selección

Pregunta 25 - Raz. Matemático
Puntúa como: 8.00

Seis amigos: Álvaro, Bertha, Cinthia, David, Elmer y Francisco se sientan alrededor de una mesa circular en seis asientos distribuídos simétricamente. Se conoce que:
- las dos mujeres no se sientan juntas,
- Elmer se sienta a la izquierda de David,
- Francisco se sienta junto y a la derecha de Álvaro,
- David se sienta frente a Bertha.

¿Quién se sienta junto a la izquierda de Cinthia?

- ○ Elmer
- ○ Francisco
- ○ Álvaro
- ○ David
- ○ Bertha

Quitar selección

Pregunta 26 - Raz. Matemático
Puntúa como: 8.00

Rita gasta 5/7 del dinero que tiene y luego gana 2/3 de lo que le quedaba.
¿Qué fracción de lo que tiene ahora debe volver a ganar para que tenga lo que tenía al inicio?

- ○ 3/10
- ○ 11/10
- ○ 7/10
- ○ 11/8
- ○ 11/5

NAVEGACIÓN DE LA EVALUACIÓN VIRTUAL
DECIMOSEGUNDO SIMULACRO DE APTITUD ACADÉMICA Y HUMANIDADES_SUN 2023

1	2	3	4	5	6	7	8	9	10	11	12	13
14	15	16	17	18	19	20	21	22	23	24	25	26
27	28	29	30	31	32	33	34	35	36	37	38	39
40	41	42	43	44	45	46	47	48	49	50	51	52
53	54	55	56	57	58	59	60	61	62	63	64	65
66	67	68	69	70	71	72	73	74	75	76	77	78
79	80	81	82	83	84	85	86	87	88	89	90	91
92	93	94	95	96	97	98	99	100				

Raz. Matemático
Raz. Verbal
Historia del Perú y del Mundo
Geografía
Economía
Educación Cívica
Actualidad
Psicología
Comunicación y Lengua
Literatura
Filosofía
Lógica
Inglés

2h 53m 50s

Quitar selección

Pregunta 27 - Raz. Matemático
Puntúa como: 8.00

Se define la siguiente tabla de verdad para el operador (*).

p	q	$p*q$
V	V	F
V	F	F
F	V	V
F	F	F

Halle la matriz principal de $(p*{\sim}q) \wedge ({\sim}p*q)$ de

- ○ FFFV
- ○ FFVF
- ○ FFFF
- ○ VVVV
- ○ VVFF

Quitar selección

NAVEGACIÓN DE LA EVALUACIÓN VIRTUAL
DECIMOSEGUNDO SIMULACRO DE APTITUD ACADÉMICA Y HUMANIDADES_SUN 2023

1	2	3	4	5	6	7	8	9	10	11	12	13
14	15	16	17	18	19	20	21	22	23	24	25	26
27	28	29	30	31	32	33	34	35	36	37	38	39
40	41	42	43	44	45	46	47	48	49	50	51	52
53	54	55	56	57	58	59	60	61	62	63	64	65
66	67	68	69	70	71	72	73	74	75	76	77	78
79	80	81	82	83	84	85	86	87	88	89	90	91
92	93	94	95	96	97	98	99	100				

Raz. Matemático
Raz. Verbal
Historia del Perú y del Mundo
Geografía
Economía
Educación Cívica
Actualidad
Psicología
Comunicación y Lengua
Literatura
Filosofía
Lógica
Inglés

Pregunta 28 - Raz. Matemático
Puntúa como: 8.00

Rodrigo reparte caramelos entre sus sobrinos. Si reparte 8 caramelos a cada uno, le sobran 15 caramelos; si reparte 11 caramelos a cada uno, le faltan 3 caramelos. ¿Cuántos caramelos tiene Rodrigo?

- ○ 62
- ○ 54
- ○ 48
- ○ 66
- ○ 63

Quitar selección

Pregunta 29 - Raz. Matemático
Puntúa como: 8.00

El radio de una esfera aumento en cierto valor. Para determinar la variación porcentual del volumen de la esfera, es suficiente saber que

I. El valor inicial del radio es 6 cm
II. El radio aumentó en el 20% de su valor.

- ○ La información I es suficiente.
- ○ La información II es suficiente.
- ○ Es necesario usar ambas informaciones.
- ○ Cada información por separado es suficiente.
- ○ La información brindada es insuficiente.

Quitar selección

Pregunta 30 - Raz. Matemático
Puntúa como: 8.00

¿Cuántas fracciones a/b equivalentes a $0.\widehat{8}$ existen?
Información adicional:
I. $20 < a < 45$
II. $30 < b < 60$

Para resolver el problema:

2h 53m 50s

- ○ La información I es suficiente.

- ◯ La información II es suficiente.
- ◯ Es necesario usar ambas informaciones.
- ◯ Cada información por separado es suficiente.
- ◯ La información brindada es insuficiente.

Quitar selección

Pregunta 31 - Raz. Matemático
Puntúa como: 8.00

Halle el valor de n en la siguiente sucesión 6; 15; 36; 93; 258; n

- ◯ 743
- ◯ 467
- ◯ 647
- ◯ 747
- ◯ 737

Quitar selección

Pregunta 32 - Raz. Matemático
Puntúa como: 8.00

Se tiene el siguiente cuadro estadístico referente a las edades de un grupo de estudiantes. Se pide determinar la suma de la media y la mediana.

Edades	*fi*
18	4
20	3
22	5
24	2
26	1
	$n=15$

- ◯ 41
- ◯ 42
- ◯ 43.5
- ◯ 43.06
- ◯ 45.04

Quitar selección

Pregunta 33 - Raz. Matemático
Puntúa como: 8.00

Una estudiante de un aula del ciclo anual Uni hizo una encuesta a todos los estudiantes sobre la actividad que hacen en su tiempo libre, estas respuestas las graficó en el siguiente diagrama circular. Si 169 estudiantes respondieron deporte y los que respondieron televisión son tres veces más de los que respondieron otros de estas tres actividades, ¿cuántos respondieron lectura?

- ◯ 52
- ◯ 48
- ◯ 74
- ◯ 91

NAVEGACIÓN DE LA EVALUACIÓN VIRTUAL
DECIMOSEGUNDO SIMULACRO DE APTITUD ACADÉMICA Y HUMANIDADES_SUN 2023

1	2	3	4	5	6	7	8	9	10	11	12	13
14	15	16	17	18	19	20	21	22	23	24	25	26
27	28	29	30	31	32	33	34	35	36	37	38	39
40	41	42	43	44	45	46	47	48	49	50	51	52
53	54	55	56	57	58	59	60	61	62	63	64	65
66	67	68	69	70	71	72	73	74	75	76	77	78
79	80	81	82	83	84	85	86	87	88	89	90	91
92	93	94	95	96	97	98	99	100				

Raz. Matemático
Raz. Verbal
Historia del Perú y del Mundo
Geografía
Economía
Educación Cívica
Actualidad
Psicología
Comunicación y Lengua
Literatura
Filosofía
Lógica
Inglés

2h 53m 50s

○ 95

Quitar selección

Pregunta 34 - Raz. Matemático
Puntúa como: 8.00

¿Qué edad tiene el menor de tres hermanos, si el mayor tiene 10 años más que él y 3 años más que el segundo?
Datos:
I. El segundo tiene 11 años.
II. La diferencia de edades del segundo y el menor de los hermanos es de 7 años.
Para resolver el problema:

○ La información I es suficiente.
○ La información II es suficiente.
○ Es necesario usar ambas informaciones.
○ Cada información por separado es suficiente.
○ La información brindada es insuficiente.

Quitar selección

NAVEGACIÓN DE LA EVALUACIÓN VIRTUAL
DECIMOSEGUNDO SIMULACRO DE APTITUD ACADÉMICA Y HUMANIDADES_SUN 2023

1 2 3 4 5 6 7 8 9 10 11 12 13
14 15 16 17 18 19 20 21 22 23 24 25 26
27 28 29 30 31 32 33 34 35 36 37 38 39
40 41 42 43 44 45 46 47 48 49 50 51 52
53 54 55 56 57 58 59 60 61 62 63 64 65
66 67 68 69 70 71 72 73 74 75 76 77 78
79 80 81 82 83 84 85 86 87 88 89 90 91
92 93 94 95 96 97 98 99 100

Raz. Matemático
Raz. Verbal
Historia del Perú y del Mundo
Geografía
Economía
Educación Cívica
Actualidad
Psicología
Comunicación y Lengua
Literatura
Filosofía
Lógica
Inglés

Pregunta 35 - Raz. Matemático
Puntúa como: 8.00

En el siguiente gráfico se muestran las notas de un grupo de estudiantes de Matemática, ¿qué tanto por ciento de estudiantes aprobaron, si la nota aprobatoria es de 10?

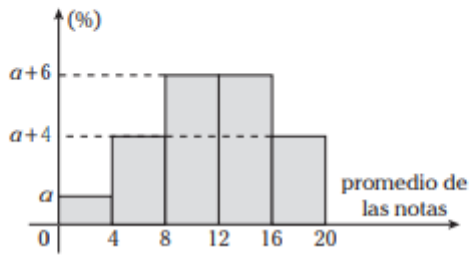

○ 47%
○ 50%
○ 53%
○ 52%
○ 51%

Quitar selección

Pregunta 36 - Raz. Verbal
Puntúa como: 8.00

Definiciones

. .....: Indiferencia y despego que denotan menosprecio.

○ Desolar
○ Desgajar
○ Desdén
○ Desdoro
○ Desfajar

Quitar selección

Pregunta 37 - Raz. Verbal
Puntúa como: 8.00

Precisión léxica

Aquel hombre es muy bien recibido en las fiestas sociales por su **origen** familiar.

2h 53m 50s

- ◯ prole
- ◯ patrimonio
- ◯ hacienda
- ◯ abolengo
- ◯ ralea

Quitar selección

NAVEGACIÓN DE LA EVALUACIÓN VIRTUAL
DECIMOSEGUNDO SIMULACRO DE APTITUD ACADÉMICA Y HUMANIDADES_SUN 2023

1	2	3	4	5	6	7	8	9	10	11	12	13
14	15	16	17	18	19	20	21	22	23	24	25	26
27	28	29	30	31	32	33	34	35	36	37	38	39
40	41	42	43	44	45	46	47	48	49	50	51	52
53	54	55	56	57	58	59	60	61	62	63	64	65
66	67	68	69	70	71	72	73	74	75	76	77	78
79	80	81	82	83	84	85	86	87	88	89	90	91
92	93	94	95	96	97	98	99	100				

Raz. Matemático
Raz. Verbal
Historia del Perú y del Mundo
Geografía
Economía
Educación Cívica
Actualidad
Psicología
Comunicación y Lengua
Literatura
Filosofía
Lógica
Inglés

Pregunta 38 - Raz. Verbal
Puntúa como: 8.00

La **privación** sexual es la prevención que la Iglesia recomienda para no contraer el sida.

- ◯ moderación
- ◯ sobriedad
- ◯ frugalidad
- ◯ apatía
- ◯ abstinencia

Quitar selección

Pregunta 39 - Raz. Verbal
Puntúa como: 8.00

Se trata de un tema **exigente**, por ello, pon todo tu esfuerzo para intentar comprenderlo.

- ◯ nimio
- ◯ fatigoso
- ◯ bizantino
- ◯ abstruso
- ◯ delicado

Quitar selección

Pregunta 40 - Raz. Verbal
Puntúa como: 8.00

Antonimia contextual

Los pandilleros se abalanzaron contra su víctima para sustraerle todas sus pertenencias.

- ◯ espolearle
- ◯ usurparle
- ◯ reintegrarle
- ◯ expoliarle
- ◯ desgravarle

Quitar selección

Pregunta 41 - Raz. Verbal
Puntúa como: 8.00

Hay serias dudas respecto a la imparcialidad con la que se desarrolla el juicio contra los acusados de corrupción.

- ◯ templanza
- ◯ sobriedad
- ◯ santidad
- ◯ probidad
- ◯ indigencia

Quitar selección

2h 53m 50s

Pregunta 42 - Raz. Verbal
Puntúa como: 8.00

Analogías

. CUITA : AFLICCIÓN::

- jolgorio : estupor
- limpieza : purificación
- presión : holgura
- queja : lamento
- firmeza : atención

Quitar selección

Pregunta 43 - Raz. Verbal
Puntúa como: 8.00

DAGA : ARMA::

- rifle : proyectil
- bala : herramienta
- vela : embarcación
- música : teatro
- madera : mueble

Quitar selección

Pregunta 44 - Raz. Verbal
Puntúa como: 8.00

PACIENTE : HOSPITAL::

- bombero : incendio
- policía : comisaría
- facineroso : juicio
- vendedor : tienda
- anciano : asilo

Quitar selección

Pregunta 45 - Raz. Verbal
Puntúa como: 8.00

Conectores lógicos

El azul, el rojo y el naranja serán los colores ..... pintaré un hermoso cuadro. ..... empezaré a buscar dichos colores en el cajón de mi escritorio.

- con que - Sin embargo
- conque - De modo que
- con que - Por ende
- con que - Dado que
- conque - Con que

Quitar selección

Pregunta 46 - Raz. Verbal
Puntúa como: 8.00

La pesquisa realizada por la policía determinó ..... fue asesinado; el ..... no fue un ajuste de cuentas, ... un problema sentimental.

NAVEGACIÓN DE LA EVALUACIÓN VIRTUAL
DECIMOSEGUNDO SIMULACRO DE APTITUD ACADÉMICA Y HUMANIDADES_SUN 2023

1	2	3	4	5	6	7	8	9	10	11	12	13
14	15	16	17	18	19	20	21	22	23	24	25	26
27	28	29	30	31	32	33	34	35	36	37	38	39
40	41	42	43	44	45	46	47	48	49	50	51	52
53	54	55	56	57	58	59	60	61	62	63	64	65
66	67	68	69	70	71	72	73	74	75	76	77	78
79	80	81	82	83	84	85	86	87	88	89	90	91
92	93	94	95	96	97	98	99	100				

Raz. Matemático
Raz. Verbal
Historia del Perú y del Mundo
Geografía
Economía
Educación Cívica
Actualidad
Psicología
Comunicación y Lengua
Literatura
Filosofía
Lógica
Inglés

2h 53m 50s

- ◯ por qué - por que - sino
- ◯ porque - porqué - si no
- ◯ porqué - por qué - sino
- ◯ por qué - por ello - sino
- ◯ por qué - porqué - sino

Quitar selección

Pregunta 47 - Raz. Verbal
Puntúa como: 8.00

Información prescindible

(I) Parece que fue ayer cuando, siendo todavía muy joven, me llamó la atención la obra que mi padre pidió prestada en la biblioteca. (II) A mi padre le gustaba la lectura. (III) Era una persona que siempre se estaba cultivando. (IV) Decía que el aprendizaje continuo hacía crecer el valor de las personas de cara a sí mismas y también a los demás. (V) Disfrutaba sobre todo con libros prácticos y útiles (información que pudiera emplear con rapidez en su vida).

- ◯ I
- ◯ II
- ◯ III
- ◯ IV
- ◯ V

Quitar selección

Pregunta 48 - Raz. Verbal
Puntúa como: 8.00

(I) La pintura mural mexicana es una forma artística sin paralelo dentro de la cultura moderna. (II) En muchos sentidos, es también la principal contribución mexicana a la pintura del siglo xx. (III) La pintura mural mexicana se entiende sobre grandes fachadas de entidades vinculadas al Estado. (IV) En 1921, Diego Rivera regresa a México y forma parte del renacimiento de la pintura mural. (V) La pintura mural desarrolla dos grandes temas: la revolución mexicana y la historia de México.

- ◯ I
- ◯ II
- ◯ III
- ◯ IV
- ◯ V

Quitar selección

Pregunta 49 - Raz. Verbal
Puntúa como: 8.00

. (I) La opresión no solo tiene repercusiones negativas para el individuo sino también para la sociedad. (II) La opresión disminuye la capacidad de sentir bienestar y de aprender. (III) Al disminuir la capacidad de aprendizaje, inhibe el desarrollo de los poderes creativos, productivos. (IV) Y al generar un comportamiento antisocial, crea condiciones fértiles para el crecimiento del crimen. (V) En nuestro país, existen diversos problemas como: la discriminación social, en el abuso de poder, la injusticia y la impunidad del delito.

- ◯ V
- ◯ III
- ◯ IV
- ◯ I
- ◯ II

Quitar selección

NAVEGACIÓN DE LA EVALUACIÓN VIRTUAL
DECIMOSEGUNDO SIMULACRO DE APTITUD ACADÉMICA Y HUMANIDADES_SUN 2023

1	2	3	4	5	6	7	8	9	10	11	12	13
14	15	16	17	18	19	20	21	22	23	24	25	26
27	28	29	30	31	32	33	34	35	36	37	38	39
40	41	42	43	44	45	46	47	48	49	50	51	52
53	54	55	56	57	58	59	60	61	62	63	64	65
66	67	68	69	70	71	72	73	74	75	76	77	78
79	80	81	82	83	84	85	86	87	88	89	90	91
92	93	94	95	96	97	98	99	100				

Raz. Matemático
Raz. Verbal
Historia del Perú y del Mundo
Geografía
Economía
Educación Cívica
Actualidad
Psicología
Comunicación y Lengua
Literatura
Filosofía
Lógica
Inglés

2h 53m 50s

Pregunta 50 - Raz. Verbal
Puntúa como: 8.00

. (I) El término delirio etimológicamente viene del latín delirare que significa salir del surco al labrar la tierra. (II) La palabra ha evolucionado para significar “la creencia que se sale de la norma establecida” por el grupo de pertenencia social. (III) Es lógico pensar que la palabra no guarda su significado de origen. (IV) En el lenguaje diario, describe una creencia que es falsa, extravagante o derivada de un engaño. (V) En psiquiatría, la definición supone el carácter patológico de dicha creencia, es decir, es el resultado de una enfermedad o proceso de una enfermedad.

- ○ III
- ○ II
- ○ I
- ○ IV
- ○ V

Quitar selección

NAVEGACIÓN DE LA EVALUACIÓN VIRTUAL
DECIMOSEGUNDO SIMULACRO DE APTITUD ACADÉMICA Y HUMANIDADES_SUN 2023

1	2	3	4	5	6	7	8	9	10	11	12	13
14	15	16	17	18	19	20	21	22	23	24	25	26
27	28	29	30	31	32	33	34	35	36	37	38	39
40	41	42	43	44	45	46	47	48	49	50	51	52
53	54	55	56	57	58	59	60	61	62	63	64	65
66	67	68	69	70	71	72	73	74	75	76	77	78
79	80	81	82	83	84	85	86	87	88	89	90	91
92	93	94	95	96	97	98	99	100				

Raz. Matemático
Raz. Verbal
Historia del Perú y del Mundo
Geografía
Economía
Educación Cívica
Actualidad
Psicología
Comunicación y Lengua
Literatura
Filosofía
Lógica
Inglés

Pregunta 51 - Raz. Verbal
Puntúa como: 8.00

. (I) En el transcurso de los últimos 2000 millones de años, el proceso evolutivo ha ido alejando a los seres vivos de sus primitivos orígenes. (II) Sabemos gracias a los fósiles que la vida se inició en el mar. (III) Aun en nuestros días, todas las plantas y los animales, incluido el hombre, contienen en sus células un líquido –el protoplasma– cuya composición se asemeja en extremo a la del agua marina. (IV) Es evidente que el hombre se ha distanciado mucho de sus remotos antepasados. (V) En tal sentido, si queremos ver nuestros orígenes, tendremos que observar con más profundidad nuestro mar.

- ○ II
- ○ IV
- ○ V
- ○ I
- ○ III

Quitar selección

Pregunta 52 - Raz. Verbal
Puntúa como: 8.00

Plan de redacción

LA CULTURA MOCHICA

I. Los restos de sus templos piramidales, palacios, fortificaciones, obras de irrigación y cementerios dan testimonio de su alto desarrollo artístico, tecnológico y compleja organización.

II. Surge y se desarrolla en los siglos I y VII, teniendo como escenario la larga y angosta franja desértica de la Costa norte del Perú.

III. En el periodo cultural conocido como Desarrollo Regional existió en la Costa norte del Perú un pueblo poderoso y muy guerrero conocido como la sociedad mochica.

IV. Es la cultura más conocida y admirada del Perú. Una de las más representativas del Perú antiguo desde el punto de vista de su expresión artística.

V. Los elementos de las culturas Cupisnique (“Chavín Costeño”), Salinar, Vicús y Virú se fundieron para formar la gran cultura Moche en sus primeras épocas.

- ○ IV - II - III - I - V
- ○ III - II - V - IV - I
- ○ III - II - I - V - IV

2h 53m 50s

○ III - II - V - I - IV

○ IV - II - V - III - I

Quitar selección

NAVEGACIÓN DE LA EVALUACIÓN VIRTUAL
DECIMOSEGUNDO SIMULACRO DE APTITUD ACADÉMICA Y HUMANIDADES_SUN 2023

1	2	3	4	5	6	7	8	9	10	11	12	13
14	15	16	17	18	19	20	21	22	23	24	25	26
27	28	29	30	31	32	33	34	35	36	37	38	39
40	41	42	43	44	45	46	47	48	49	50	51	52
53	54	55	56	57	58	59	60	61	62	63	64	65
66	67	68	69	70	71	72	73	74	75	76	77	78
79	80	81	82	83	84	85	86	87	88	89	90	91
92	93	94	95	96	97	98	99	100				

Raz. Matemático
Raz. Verbal
Historia del Perú y del Mundo
Geografía
Economía
Educación Cívica
Actualidad
Psicología
Comunicación y Lengua
Literatura
Filosofía
Lógica
Inglés

Pregunta 53 - Raz. Verbal

Puntúa como: 8.00

EL LENGUAJE DE INTERNET

I. Esta red global tiene la característica de que utiliza un lenguaje común que garantiza la intercomunicación de los diferentes participantes.
II. Una red de computadoras es un conjunto de máquinas que se comunican a través de algún medio con el objeto de compartir recursos.
III. Este lenguaje común o protocolo (es el lenguaje que utilizan las computadoras al compartir recursos) se conoce como TCP/IP.
IV. Podemos definir la internet como una "red de redes", es decir, una red que no solo interconecta computadoras, sino que interconecta redes de computadoras entre sí.
V. De esta manera, internet sirve de enlace entre redes más pequeñas y permite ampliar su cobertura al hacerlas parte de una "red global".

○ IV - I - III - II - V

○ II - I - III - V - IV

○ IV - II - V - III - I

○ IV - II - V - I - III

○ II - V - I - III - IV

Quitar selección

Pregunta 54 - Raz. Verbal

Puntúa como: 8.00

LOS INICIOS DE LA TECNOLOGÍA

I. Ese vínculo con la ciencia, hace que la tecnología no solo abarque "el hacer", sino también su reflexión teórica.
II. El descubrimiento prehistórico de controlar el fuego incrementa la disponibilidad de fuentes de comida.
III. La tecnología formal tiene su origen cuando la técnica (primordialmente empírica) comienza a vincularse con la ciencia, sistematizándose así los métodos de producción.
IV. Asimismo la invención de la rueda ayuda a los humanos a viajar y controlar su entorno.
V. La humanidad comienza a formar tecnología convirtiendo los recursos naturales en herramientas simples.

○ V - II - IV - III - I

○ V - II - IV - I - III

○ V - III - I - II - IV

○ II - IV - V - III - I

○ II - IV - III - I - V

Quitar selección

Pregunta 55 - Raz. Verbal

Puntúa como: 8.00

2h 53m 50s

LA EVOLUCIÓN DEL ARTE

I. Con el Renacimiento italiano, a fines del siglo XV, comienza a distinguirse entre la artesanía y las bellas artes.
II. Mediante recursos plásticos, lingüísticos o sonoros, el arte permite expresar ideas, emociones, percepciones y sensaciones.
III. El artesano es aquel que se dedica a producir obras múltiples, mientras que el artista es creador de obras únicas.
IV. El arte (del latín ars) es el concepto que engloba todas las creaciones realizadas por el ser humano para expresar una visión sensible acerca del mundo, ya sea real o imaginario.
V. La historia indica que, con la aparición del Homo sapiens, el arte tuvo una función ritual y mágico-religiosa, que fue cambiando con el correr del tiempo.

- ◯ V - I - III - II - IV
- ◯ V - I - III - IV - II
- ◯ IV - I - III - V - II
- ◯ IV - II - V - III - I
- ◯ IV - II - V - I - III

Quitar selección

NAVEGACIÓN DE LA EVALUACIÓN VIRTUAL
DECIMOSEGUNDO SIMULACRO DE APTITUD ACADÉMICA Y HUMANIDADES_SUN 2023

1	2	3	4	5	6	7	8	9	10	11	12	13
14	15	16	17	18	19	20	21	22	23	24	25	26
27	28	29	30	31	32	33	34	35	36	37	38	39
40	41	42	43	44	45	46	47	48	49	50	51	52
53	54	55	56	57	58	59	60	61	62	63	64	65
66	67	68	69	70	71	72	73	74	75	76	77	78
79	80	81	82	83	84	85	86	87	88	89	90	91
92	93	94	95	96	97	98	99	100				

Raz. Matemático
Raz. Verbal
Historia del Perú y del Mundo
Geografía
Economía
Educación Cívica
Actualidad
Psicología
Comunicación y Lengua
Literatura
Filosofía
Lógica
Inglés

Pregunta 56 - Raz. Verbal
Puntúa como: 8.00

Inclusión de enunciados

(I) De los varios millones que se expulsan en la eyaculación solo 300 - 400 espermatozoides llegan al ovocito (de varios millones). (II) Tardan de dos a siete horas en llegar al ovocito que se encuentra en la trompa de Falopio. (III) En el proceso, los espermatozoides segregan lipoproteínas y proteínas plasmáticas que le servirán para atravesar la membrana del ovocito. (IV) ..... (V) Cuando penetra uno de ellos, tiene lugar la reacción de zona que consiste en que la membrana pelúcida impedirá la entrada de más espermatozoides.

- ◯ Una vez producida la fecundación, el núcleo del ovocito forma el pronúcleo femenino.
- ◯ Los espermatozoides pueden estar vivos durante varios días en el aparato genital femenino.
- ◯ Asimismo contienen enzimas y glucoproteínas que coadyuvarán en la penetración del óvulo.
- ◯ Los espermatozoides presentan tres componentes claramente diferenciados: cabeza, cuello y cola.
- ◯ Se cree que el movimiento de la cola del espermatozoide se debe a la asimetría de sus fibras longitudinales.

Quitar selección

Pregunta 57 - Raz. Verbal
Puntúa como: 8.00

(I) Hace 40 años sucedió una de las mayores tragedias de la historia peruana. (II) Un pavoroso terremoto estremeció la zona norte del país. (III) .... (IV) El número de muertos llegó a 5 mil en Huaraz y zonas aledañas donde el 95 % de las viviendas quedaron destruidas. (V) Por ello, los comités de emergencia estuvieron hasta altas horas de la noche con la labor de rescate y remoción de escombros.

- ◯ Otro movimiento, pero leve, se sintió minutos antes de las 10 de la noche.
- ◯ Según cifras extraoficiales, 11 personas perdieron la vida en Trujillo.
- ◯ En cambio, el movimiento sísmico en Lima alcanzó el grado 6 de escala de Mercalli.

2h 53m 50s

- ◯ El epicentro del sismo estuvo, al parecer, en el mar, a 30 kilómetros de la Costa.
- ◯ Destruyendo, en gran parte, la ciudad de Huaraz y pueblos del Callejón de Huaylas.

Quitar selección

Pregunta 58 - Raz. Verbal

Puntúa como: 8.00

(I) ..... (II) Manantial de inspiración que se vio plasmado en la pintura. (III) Los pinceles de los artistas han olvidado los exuberantes paisajes y recrean el horror de las víctimas. (IV) Capturan el daño físico, moral y económico que nadie repara, pues todo sigue igual que los primeros días de la catástrofe. (V) Sin embargo, los pinceles de los artistas no solo nos dan a conocer el pasado, el presente de Haití, sino la esperanza que habrá un mañana.

- ◯ Los pintores capturan el horror de lo que se sintió como el fin del mundo.
- ◯ El 12 de enero del 2009, un terremoto mató a más de 200 mil personas.
- ◯ Pese al devastador terremoto, Haití encontró un manantial de inspiración.
- ◯ El manantial de inspiración de los artistas hizo mutar su temática.
- ◯ En medio de tanta destrucción, surge una luz de esperanza.

Quitar selección

Pregunta 59 - Raz. Verbal

Puntúa como: 8.00

(I) El rock es un término amplio que agrupa a una variedad de géneros musicales. (II) …… (III) La música rock también se nutrió fuertemente del blues y el folk, e incorporó influencias del jazz, la música clásica y otras fuentes. (IV) Musicalmente, el rock se ha centrado en la guitarra eléctrica, normalmente como parte de un grupo de rock con cantante, bajo, batería y, algunas veces, instrumentos de teclado como el órgano y el piano (V) Típicamente, el rock es una música centrada en las canciones, habitualmente con compás de 4/4 y usando una estructura verso-estribillo.

- ◯ Su forma originaria, conocida como rock and roll, surgió mayormente de la combinación de dos géneros anteriores como eran el rhythm and blues y el country.
- ◯ A finales de la década de 1960, referida como la "era dorada" o el periodo del "rock clásico", surgieron distintos subgéneros distintivos del rock.
- ◯ La música rock también abarcó y sirvió de vehículo para los movimientos culturales y sociales en todo el mundo.
- ◯ En 1954 Elvis Presley grabó la canción "That's all right Mama" que, según la revista Rolling Stone, es la primera canción de rock and roll de la historia.
- ◯ Gracias a la gira de The Rolling Stones American Tour 1972 se populariza la frase "Sexo, Drogas y Rock and roll".

Quitar selección

Pregunta 60 - Raz. Verbal

Puntúa como: 8.00

(I) Las bacterias son los organismos más abundantes del planeta. (II) Son ubicuas, se encuentran en todos los hábitats terrestres y acuáticos. (III)…….. (IV) Algunas bacterias pueden incluso sobrevivir en las condiciones extremas del espacio exterior. (V) Se estima que se pueden encontrar en torno a 40 millones de células bacterianas en un gramo de tierra y un millón de células bacterianas en un mililitro de agua dulce. En total, se calcula que hay aproximadamente 5×1030 bacterias en el mundo.

- ◯ Las bacterias son microorganismos procariotas que presentan un tamaño de unos pocos micrómetros (por lo general entre 0,5 y 5 µm de longitud).

NAVEGACIÓN DE LA EVALUACIÓN VIRTUAL
DECIMOSEGUNDO SIMULACRO DE APTITUD ACADÉMICA Y HUMANIDADES_SUN 2023

1	2	3	4	5	6	7	8	9	10	11	12	13
14	15	16	17	18	19	20	21	22	23	24	25	26
27	28	29	30	31	32	33	34	35	36	37	38	39
40	41	42	43	44	45	46	47	48	49	50	51	52
53	54	55	56	57	58	59	60	61	62	63	64	65
66	67	68	69	70	71	72	73	74	75	76	77	78
79	80	81	82	83	84	85	86	87	88	89	90	91
92	93	94	95	96	97	98	99	100				

Raz. Matemático
Raz. Verbal
Historia del Perú y del Mundo
Geografía
Economía
Educación Cívica
Actualidad
Psicología
Comunicación y Lengua
Literatura
Filosofía
Lógica
Inglés

2h 53m 50s

- ◯ Las bacterias son células procariotas, por lo que a diferencia de las células eucariotas no tienen el núcleo definido ni presentan, en general, orgánulos membranosos internos.
- ◯ Las bacterias son imprescindibles para el reciclaje de los elementos, pues muchos pasos importantes de los ciclos biogeoquímicos dependen de éstas.
- ◯ Crecen hasta en los hábitats más extremos como en los manantiales de aguas calientes y ácidas, en desechos radioactivos, en las profundidades tanto del mar como de la corteza terrestre.
- ◯ En el cuerpo humano hay aproximadamente diez veces más células bacterianas que células humanas, con una gran cantidad de bacterias en la piel y en el tracto digestivo.

Quitar selección

NAVEGACIÓN DE LA EVALUACIÓN VIRTUAL
DECIMOSEGUNDO SIMULACRO DE APTITUD ACADÉMICA Y HUMANIDADES_SUN 2023

1	2	3	4	5	6	7	8	9	10	11	12	13
14	15	16	17	18	19	20	21	22	23	24	25	26
27	28	29	30	31	32	33	34	35	36	37	38	39
40	41	42	43	44	45	46	47	48	49	50	51	52
53	54	55	56	57	58	59	60	61	62	63	64	65
66	67	68	69	70	71	72	73	74	75	76	77	78
79	80	81	82	83	84	85	86	87	88	89	90	91
92	93	94	95	96	97	98	99	100				

Raz. Matemático
Raz. Verbal
Historia del Perú y del Mundo
Geografía
Economía
Educación Cívica
Actualidad
Psicología
Comunicación y Lengua
Literatura
Filosofía
Lógica
Inglés

Pregunta 61 - Raz. Verbal

Puntúa como: 8.00

Cohesión textual

(I) Como son, por ejemplo, la divulgación imprudente de datos personales y la activación remota por parte de terceros de la webcam mediante el uso de software no autorizado. (II) Esta página web tiene como misión promover el uso adecuado de la cámara web, y la prevención de los riesgos asociados a ella, entre niños y adolescentes. (III) Por otro lado, advierte sobre algunos riesgos propios de la utilización de esta tecnología que deben tenerse muy en cuenta. (IV) El Foro Generaciones Interactivas y Pantallas Amigas ha creado la página www.cuidadoconlawebcam. com. (V) Contiene diferentes historias animadas que inciden en las oportunidades que la webcam brinda a los usuarios: poder comunicarse con sus seres queridos y amigos; potenciar las relaciones sociales, etc.

- ◯ V - IV - II - I - III
- ◯ IV - II - V - III - I
- ◯ IV - V - III - II - I
- ◯ V - IV - III - II - I
- ◯ IV - V - II - III - I

Quitar selección

Pregunta 62 - Raz. Verbal

Puntúa como: 8.00

(I) Por "su escritura polifónica, monumento al sufrimiento y al coraje en nuestro tiempo". (II) Es el único libro publicado de la escritora en nuestro país hasta la fecha, aunque este otoño aparecerá en las librerías su otra gran obra, La guerra no tiene nombre de mujer, editada por Debate. (III) La periodista bielorrusa Svetlana Aleksiévich se convierte así en la 14ª mujer que recibe el premio. (IV) Es autora de Voces de Chernóbil (De bolsillo, 2015), un libro ya universal, multipremiado y traducido a veinte idiomas sobre el catastrófico accidente de la central nuclear. (V) Por primera vez la gran favorita para recibir el Nobel de Literatura ha sido finalmente galardonada por el jurado de la Academia Sueca.

- ◯ III - IV - II - I - V
- ◯ V - III - I - II - IV
- ◯ V - III - IV - II - I
- ◯ V - III - I - IV - II
- ◯ III - V - I - IV - II

Quitar selección

Pregunta 63 - Raz. Verbal

Puntúa como: 8.00

(I) Luego, se convierte en una novela de chantaje con trasfondo político y voluntad de crítica al periodismo amarillo y a las alcantarillas del estado peruano. (II) El propio autor, en la contraportada del libro, resume muy bien los aspectos más evidentes de Cinco esquinas. (III) Su trama arranca con una

2h 53m 50s

escena lésbica inesperada entre dos amigas de la alta sociedad limeña, allá en los años de Fujimori. (IV) Hay un escándalo sexual que afecta a un ingeniero prestigioso, un asesinato, el rostro siniestro del Poder; y finalmente, una relativa redención del oficio del periodismo. (V) Aquel estado que discurre por un trazado sorprendentemente similar a las del terrorismo y la mafia.

- ○ II - III - I - V - IV
- ○ III - I - V - IV - II
- ○ III - I - II - V - IV
- ○ II - III - V - IV - I
- ○ III - I - II - IV - V

Quitar selección

Pregunta 64 - Raz. Verbal
Puntúa como: 8.00

(I) Esta película es más sobria, más depurada, más dramática. (II) Si nos preguntamos a qué se parecería el cine de Pedro Almodóvar desasistido del exceso, del barroquismo, en definitiva, de la excentricidad almodovariana, la respuesta puede ser Julieta. (III) Tanto así que acaso hubiera sido aplaudido por propio Bergman, cuya poética y espiritualidad aparece y reaparece a lo largo de este terrible cuento sobre una madre abandonada por su hija. (IV) Julieta es su vigésimo largometraje en 35 años de carrera. (V) El cineasta manchego desentraña de esta manera, en su nuevo filme que se estrena el próximo viernes, su soledad y lo incierto de la vida.

- ○ II - I - III - V - IV
- ○ II - IV - I - III - V
- ○ II - IV - III - I - V
- ○ IV - I - II - III - V
- ○ IV - II - I - V - III

Quitar selección

Pregunta 65 - Raz. Verbal
Puntúa como: 8.00

(I) Fue marcada, por lo tanto, por hechos de enorme repercusión histórica y científica que incluyeron la muerte masiva de civiles, el Holocausto y el uso, por primera y única vez, de armas nucleares en un conflicto militar. (II) En él se vieron implicadas la mayor parte de las naciones del mundo, incluidas todas las grandes potencias, agrupadas en dos alianzas militares enfrentadas. (III) La Segunda Guerra Mundial fue un conflicto militar global que se desarrolló entre 1939 y 1945. (IV) Por ello, fue la mayor contienda bélica de la Historia, con más de cien millones de militares movilizados y un estado de «guerra total » en que los grandes contendientes destinaron toda su capacidad económica, militar y científica al servicio del esfuerzo bélico. (V) En conclusión, la Segunda Guerra Mundial fue el conflicto más mortífero en la historia de la humanidad, con un resultado final de entre 50 y 70 millones de víctimas.

- ○ II - IV - I - III - V
- ○ V - IV - III - I - II
- ○ III - IV - V - I - II
- ○ III - I - V - IV - II
- ○ III - II - IV - I - V

Quitar selección

Pregunta 66 - Raz. Verbal
Puntúa como: 8.00

Comprensión lectora

TextoN.º 1

2h 53m 50s

NAVEGACIÓN DE LA EVALUACIÓN VIRTUAL
DECIMOSEGUNDO SIMULACRO DE APTITUD ACADÉMICA Y HUMANIDADES_SUN 2023

1	2	3	4	5	6	7	8	9	10	11	12	13
14	15	16	17	18	19	20	21	22	23	24	25	26
27	28	29	30	31	32	33	34	35	36	37	38	39
40	41	42	43	44	45	46	47	48	49	50	51	52
53	54	55	56	57	58	59	60	61	62	63	64	65
66	67	68	69	70	71	72	73	74	75	76	77	78
79	80	81	82	83	84	85	86	87	88	89	90	91
92	93	94	95	96	97	98	99	100				

Raz. Matemático
Raz. Verbal
Historia del Perú y del Mundo
Geografía
Economía
Educación Cívica
Actualidad
Psicología
Comunicación y Lengua
Literatura
Filosofía
Lógica
Inglés

Casi con vergüenza hay que tocar un tema, el de la vergüenza, que está camino de un desván en el que nadie hurgará salvo los antropólogos del mañana. ¿Qué función cumple? La vergüenza es el rostro social de la moral, su lado visible. Es la expresión de los escrúpulos y la señal de alarma que se enciende para defender la moral pública. Así como las ciudades del pasado se protegían con murallas para defenderse de los enemigos, del mismo modo las sociedades cohesionadas se servían de este comportamiento para defenderse de las agresiones contra el orden moral. Allí donde existía una cultura de la vergüenza, cobraban sentido el honor y la reputación. Extinguido el honor quedó su hermana la reputación, la fama que uno se tenía y que todos cuidaban, más aún si sobre ella se construía una carrera, una vida. El temor de perder la reputación era un dique de contención que disuadía a quien estaba tentado de romper las reglas. Pero si la sanción social se vuelve insensible frente a las normas quebrantadas, pierde sentido la reputación. Y sin percepción de culpa se desvanece el fundamento de la censura social, la exigencia de una indemnización.

¿Cuál es la tesis del texto?

- ◯ La vergüenza, reputación y el honor garantizan las relaciones interpersonales.
- ◯ La sanción es una medida ineludible contra el quebrantamiento de la ley moral.
- ◯ La vergüenza es la medida del irrespeto de las leyes morales en una sociedad.
- ◯ Los comportamientos desvergonzados son los predominantes en la actualidad.
- ◯ La vergüenza es un medio para proteger el orden moral en una sociedad.

Quitar selección

NAVEGACIÓN DE LA EVALUACIÓN VIRTUAL
DECIMOSEGUNDO SIMULACRO DE APTITUD ACADÉMICA Y HUMANIDADES_SUN 2023

1	2	3	4	5	6	7	8	9	10	11	12	13
14	15	16	17	18	19	20	21	22	23	24	25	26
27	28	29	30	31	32	33	34	35	36	37	38	39
40	41	42	43	44	45	46	47	48	49	50	51	52
53	54	55	56	57	58	59	60	61	62	63	64	65
66	67	68	69	70	71	72	73	74	75	76	77	78
79	80	81	82	83	84	85	86	87	88	89	90	91
92	93	94	95	96	97	98	99	100				

Raz. Matemático
Raz. Verbal
Historia del Perú y del Mundo
Geografía
Economía
Educación Cívica
Actualidad
Psicología
Comunicación y Lengua
Literatura
Filosofía
Lógica
Inglés

Pregunta 67 - Raz. Verbal

Puntúa como: 8.00

Según el texto, una característica de una sociedad cohesionada es la

- ◯ observancia del orden moral.
- ◯ práctica de la vergüenza.
- ◯ lucha por la justicia social.
- ◯ sensibilidad frente a la injusticia.
- ◯ moralidad consciente inmutable.

Quitar selección

Pregunta 68 - Raz. Verbal

Puntúa como: 8.00

Texto N.º 2

A menudo se cita la manera de escribir los mensajes en internet como un problema específico; se dice que los niños del mañana no serán capaces de escribir correctamente. No obstante, el hecho de que los jóvenes reduzcan las palabras utilizando técnicas jeroglíficas (salu2, d+), palabras formadas por iniciales (tq – «te quiero»–) resulta escasamente novedoso o trascendente. Por supuesto que debemos vigilar si los chicos empiezan a usar sus abreviaturas en lugares en los que no tiene sentido hacerlo, como en los trabajos escolares. Los niños deben aprender que las abreviaturas utilizadas en los mensajes de texto cumplen su función cuando el espacio es ajustado y la rapidez es importante, pero no en otros contextos. Lo mismo puede decirse de las variaciones que tanto adultos como niños introducen en la escritura de sus correos electrónicos. Tres son sus principales rasgos. La importancia concedida al uso de mayúsculas varía mucho; como, en su mayor parte, Internet es insensible a su utilización, se ha desarrollado un uso aleatorio de las mismas o su supresión absoluta. Hay una fuerte tendencia a la utilización de minúsculas en todas partes. Tanto en e-mails como en chats o mundos virtuales, triunfa el principio de “economía de pulsaciones”. Del mismo modo, la puntuación también tiende al minimalismo está completamente ausente de

2h 53m 50s

algunos e-mails o conversaciones de chats. El tercer rasgo es la ortografía diferente. El desprecio por las reglas ortográficas se permite sin problemas en el contexto de una conversación. Los errores ortográficos en un correo electrónico se atribuirán a la poca destreza mecanográfica y no necesariamente a una educación deficiente.

¿Cuál es el tema central del texto?

- ◯ Las versátiles técnicas jeroglíficas usadas en Internet
- ◯ Internet, el chat, el e-mail y su importancia en la vida.
- ◯ La importancia de las abreviaturas en las computadoras.
- ◯ Las formas de escritura en los correos electrónicos.
- ◯ Consecuencias del tipo de lenguaje usado en Internet.

Quitar selección

NAVEGACIÓN DE LA EVALUACIÓN VIRTUAL
DECIMOSEGUNDO SIMULACRO DE APTITUD ACADÉMICA Y HUMANIDADES_SUN 2023

1	2	3	4	5	6	7	8	9	10	11	12	13
14	15	16	17	18	19	20	21	22	23	24	25	26
27	28	29	30	31	32	33	34	35	36	37	38	39
40	41	42	43	44	45	46	47	48	49	50	51	52
53	54	55	56	57	58	59	60	61	62	63	64	65
66	67	68	69	70	71	72	73	74	75	76	77	78
79	80	81	82	83	84	85	86	87	88	89	90	91
92	93	94	95	96	97	98	99	100				

Raz. Matemático
Raz. Verbal
Historia del Perú y del Mundo
Geografía
Economía
Educación Cívica
Actualidad
Psicología
Comunicación y Lengua
Literatura
Filosofía
Lógica
Inglés

Pregunta 69 - Raz. Verbal
Puntúa como: 8.00

¿Cuál de los siguientes enunciados es divergente con el texto?

- ◯ Los errores ortográficos en Internet se pueden explicar por falta de destreza.
- ◯ La escritura tradicional guarda bastante respeto por las normas ortográficas.
- ◯ El empleo de técnicas jeroglíficas en el chat es un fenómeno revolucionario.
- ◯ El uso de la puntuación tradicional es necesario para evitar la ambigüedad.
- ◯ Algunos usuarios de e-mail soslayan el uso de la puntuación en sus correos.

Quitar selección

Pregunta 70 - Raz. Verbal
Puntúa como: 8.00

Se infiere del texto que el uso de las abreviaturas

- ◯ es una costumbre muy reciente en la historia de la lengua.
- ◯ atenta contra el principio clave de economía del lenguaje.
- ◯ está completamente ausente en los diálogos digitales.
- ◯ se justifica si el mensaje debe ser enviado con velocidad.
- ◯ es un hábito exclusivo de las jóvenes generaciones.

Quitar selección

Pregunta 71 - Raz. Verbal
Puntúa como: 8.00

Texto N.º 3

Dos nuevos estudios desafían la idea de que la plantación de bosques podría ser una manera barata de absorber las emisiones de dióxido de carbono, el principal gas de retención del calor producido por las actividades humanas. En uno de ellos, grupos de pinos expuestos a elevados niveles de gas, al principio, absorbían grandes cantidades del mismo y tenían un corto periodo de crecimiento rápido, pero luego volvían a sus promedios normales de crecimiento. Otro estudio del suelo alrededor de los árboles expuestos descubrió que, a pesar de que acumulaba carbono, gran parte de este era devuelto al aire como dióxido de carbono cada vez que se descomponía materia orgánica en el suelo. Los estudios se limitaron a los bosques de pino de Carolina del Norte y sus hallazgos sugieren que hay un límite para el valor de la plantación de bosques en compensación de las emisiones de dióxido de carbono de las chimeneas y tubos de escape que, según muchos científicos, están calentando el clima. La plantación de bosques ha sido incluida en las negociaciones de un acuerdo global para reducir los gases de efecto invernadero. La nueva investigación, que da a entender que el enfoque no es tan efectivo como sus defensores esperaban, concluye que los estimados anteriores de la capacidad de los bosques para absorber carbono eran “indebidamente optimistas”.

2h 53m 50s

Los estudios referidos ponen en entredicho que

- ◯ las plantaciones de bosques de pino se hayan realizado con éxito en Carolina del Norte.
- ◯ el efecto invernadero tenga como causa básica la emisión del dióxido de carbono.
- ◯ haya alguna posibilidad de detener el efecto invernadero producido por los humanos.
- ◯ los bosques puedan retener el dióxido de carbono de forma permanente.
- ◯ exista interés de los países industriales en impedir la emisión de dióxido de carbono.

Quitar selección

NAVEGACIÓN DE LA EVALUACIÓN VIRTUAL
DECIMOSEGUNDO SIMULACRO DE APTITUD ACADÉMICA Y HUMANIDADES_SUN 2023

1	2	3	4	5	6	7	8	9	10	11	12	13
14	15	16	17	18	19	20	21	22	23	24	25	26
27	28	29	30	31	32	33	34	35	36	37	38	39
40	41	42	43	44	45	46	47	48	49	50	51	52
53	54	55	56	57	58	59	60	61	62	63	64	65
66	67	68	69	70	71	72	73	74	75	76	77	78
79	80	81	82	83	84	85	86	87	88	89	90	91
92	93	94	95	96	97	98	99	100				

Raz. Matemático
Raz. Verbal
Historia del Perú y del Mundo
Geografía
Economía
Educación Cívica
Actualidad
Psicología
Comunicación y Lengua
Literatura
Filosofía
Lógica
Inglés

Pregunta 72 - Raz. Verbal
Puntúa como: 8.00

Se colige que las negociaciones realizadas a nivel global para reducir los gases de efecto invernadero

- ◯ se fundaron en apreciaciones, sobre todo políticas.
- ◯ se basaron en investigaciones científicas de alto nivel.
- ◯ favorecieron los intereses de los países en vías de desarrollo.
- ◯ carecían de estudios comprobados rigurosamente
- ◯ excluyeron a los países con mayor desarrollo industrial.

Quitar selección

Pregunta 73 - Raz. Verbal
Puntúa como: 8.00

Texto N.º 4

En El contrato social, Rousseau diseña la imagen de un estado en el que –con palabras de Kant– la cultura “mediante un arte consumado vuelve a ser naturaleza, cumpliéndose así la última finalidad de la determinación ética del género humano” (arte significa aquí “aquello que ha sido producido”, o “hecho”, en contraposición con lo que deviene naturalmente). Es un estado en el cual el pueblo es soberano y decide mediante votación, y en el que el “individuo, aunque esté unido a todos los otros, solo se obedece a sí mismo y es tan libre como antes”. Este último paso es apenas posible y la idea de Rousseau no queda del todo clara. En cada caso existe la libertad en el sometimiento libre bajo leyes que proceden de la “voluntad común”. La voluntad común no es lo mismo que la “voluntad de todos” (la suma de las decisiones de cada uno, con la que por ejemplo se decide un referéndum). Está más bien orientada al bien común, del mismo modo que la voluntad individual persigue el propio bienestar, y en contraposición con la voluntad de todos, que puede ser derivada, como la voluntad mayoritaria, de la parcialidad o de las valoraciones erróneas, etc., no se equivoca nunca. La voluntad común se asemeja casi a un dios: naturaleza panteísta aplicada a lo social que es el uno y el todo. El individuo es libre, ya que contempla su propia voluntad plenamente individual como algo que se ha sublimado en la voluntad común, y simultáneamente la reconoce como algo idéntico a ella. El ser humano es ciudadano citoyen y al mismo tiempo es plenamente sí mismo

Básicamente, el texto explica

- ◯ la similitud que tiene la filosofía de Rousseau con el pensamiento de Kant.
- ◯ la naturaleza del Estado y la voluntad común en la filosofía de Rousseau
- ◯ el planteamiento político y ético de Rousseau en su obra El contrato social.
- ◯ las diferencias sustanciales entre la voluntad de todos y la voluntad común.
- ◯ el conflicto entre la voluntad individual y el bienestar social según Rousseau.

Quitar selección

2h 53m 50s

Pregunta 74 - Raz. Verbal
Puntúa como: 8.00

¿Cuál de las siguientes afirmaciones no se condice con el texto de Rousseau?

- ◯ el pueblo es autónomo y toma sus decisiones por sufragio.
- ◯ las leyes no pueden regular la vida social de los hombres
- ◯ la voluntad de todos puede estar viciada por el error
- ◯ el individuo reconoce su bienestar en la voluntad común.
- ◯ la voluntad común produce las leyes en la sociedad.

Quitar selección

Pregunta 75 - Raz. Verbal

Puntúa como: 8.00

Si la voluntad de todos se identificara con la voluntad común,

- ◯ el ser humano alcanzaría su libertad de forma plena.
- ◯ las leyes serían innecesarias para la vida en armonía.
- ◯ en los referendos se decidiría por el bien común.
- ◯ las posturas de Rousseau y Kant serían contrarias.
- ◯ la voluntad individual se opondría al bien común.

Quitar selección

Pregunta 76 - Historia del Perú y del Mundo

Puntúa como: 5.80

El ayni en la época inca del Perú antiguo fue una forma de

- ◯ reciprocidad
- ◯ concentración de fuerza de trabajo.
- ◯ redistribución
- ◯ lograr cosechas.
- ◯ trabajo por turnos.

Quitar selección

Pregunta 77 - Historia del Perú y del Mundo

Puntúa como: 5.80

El movimiento filosófico cultural que influyó decisivamente en la Revolución francesa fue

- ◯ la escolástica.
- ◯ el positivismo.
- ◯ el humanismo.
- ◯ el Romanticismo.
- ◯ la Ilustración.

Quitar selección

Pregunta 78 - Historia del Perú y del Mundo

Puntúa como: 5.80

El inca Atahualpa fue sentenciado a muerte por los invasores españoles. Tras este hecho, Pizarro nombró como nuevo soberano a

- ◯ Manco Inca
- ◯ Huáscar
- ◯ Túpac Hualpa.
- ◯ Calcuchimac
- ◯ apu Quisquis.

NAVEGACIÓN DE LA EVALUACIÓN VIRTUAL
DECIMOSEGUNDO SIMULACRO DE APTITUD ACADÉMICA Y HUMANIDADES_SUN 2023

1	2	3	4	5	6	7	8	9	10	11	12	13
14	15	16	17	18	19	20	21	22	23	24	25	26
27	28	29	30	31	32	33	34	35	36	37	38	39
40	41	42	43	44	45	46	47	48	49	50	51	52
53	54	55	56	57	58	59	60	61	62	63	64	65
66	67	68	69	70	71	72	73	74	75	76	77	78
79	80	81	82	83	84	85	86	87	88	89	90	91
92	93	94	95	96	97	98	99	100				

Raz. Matemático
Raz. Verbal
Historia del Perú y del Mundo
Geografía
Economía
Educación Cívica
Actualidad
Psicología
Comunicación y Lengua
Literatura
Filosofía
Lógica
Inglés

2h 53m 50s

Quitar selección

Pregunta 79 - Historia del Perú y del Mundo
Puntúa como: 5.80

El primer presidente constitucional del Perú fue

- ◯ Andrés de Santa Cruz.
- ◯ Alvares de Arenales.
- ◯ Javier de Luna Pizarro.
- ◯ Agustín Gamarra.
- ◯ José de la Riva Agüero.

Quitar selección

Pregunta 80 - Geografía
Puntúa como: 5.80

A 4200 msnm, las condiciones atmosféricas expresan mayor sequedad del aire, y hay contrastes térmicos marcados entre el día y la noche; sin embargo, la temperatura promedio es de unos 8 °C, dichas características corresponden al clima.

- ◯ Templado frío
- ◯ Frío seco o frígido
- ◯ Templado seco
- ◯ Gélido o de nieve
- ◯ Frío boreal

Quitar selección

Pregunta 81 - Geografía
Puntúa como: 5.80

La pérdida de la capa fértil por acción del agua y del viento, debido a las malas prácticas agrícolas y la destrucción de la cobertura vegetal se denomina ..... y es especialmente grave en las vertientes occidentales y .....

- ◯ salinización - en la meseta del Collao
- ◯ sequías - la costa centro sur
- ◯ deforestación - orientales en la Sierra
- ◯ erosión hídrica - centrales andina
- ◯ desertificación - la costa norte

Quitar selección

Pregunta 82 - Geografía
Puntúa como: 5.80

Sobre aquellos procesos “in situ” que van a producir la transformación del material original en algo diferente. Señale las afirmaciones correctas.

I. Se refiere a la meteorización física.
II. Se produce con mayor facilidad en las zonas de clima tropical.
III. El más conocido es la oxidación que destruye, autos, rejas, rocas y minerales.
IV. La crioclastia y la haloclastia, son ejemplos del tipo de meteorización señalado.

- ◯ Solo I
- ◯ I, II y IV
- ◯ I y IV
- ◯ II y III
- ◯ I, II y III

NAVEGACIÓN DE LA EVALUACIÓN VIRTUAL
DECIMOSEGUNDO SIMULACRO DE APTITUD ACADÉMICA Y HUMANIDADES_SUN 2023

1	2	3	4	5	6	7	8	9	10	11	12	13
14	15	16	17	18	19	20	21	22	23	24	25	26
27	28	29	30	31	32	33	34	35	36	37	38	39
40	41	42	43	44	45	46	47	48	49	50	51	52
53	54	55	56	57	58	59	60	61	62	63	64	65
66	67	68	69	70	71	72	73	74	75	76	77	78
79	80	81	82	83	84	85	86	87	88	89	90	91
92	93	94	95	96	97	98	99	100				

Raz. Matemático
Raz. Verbal
Historia del Perú y del Mundo
Geografía
Economía
Educación Cívica
Actualidad
Psicología
Comunicación y Lengua
Literatura
Filosofía
Lógica
Inglés

2h 53m 50s

Quitar selección

Pregunta 83 - Economía
Puntúa como: 5.80

Así como el capital bajo el enfoque neoclásico se clasifica en capital productivo y lucrativo según el destino así también el capital productivo se clasifica en capital fijo y circulante según .....

- ◯ el valor
- ◯ la rotación
- ◯ la duración
- ◯ el tiempo
- ◯ el valor agregado

Quitar selección

Pregunta 84 - Educación Cívica
Puntúa como: 5.80

Un requisito para adquirir la ciudadanía según la Constitución política del Perú de 1993 es .....

- ◯ ser mayor de edad y estar inscrito en el registro electoral
- ◯ 15 o más años y estar en la condición de casados por civil
- ◯ 15 o 17 años pero haber contraído matrimonio con el permiso de los padres.
- ◯ que siendo menor de 18 años este casado y tengo un empleo fijo
- ◯ ser menor de 65 años y estar en condiciones de trabajar

Quitar selección

Pregunta 85 - Actualidad
Puntúa como: 5.80

El actual congreso del Perú declaro persona no grata al actual presidente de …… por no reconocer a Dina Boluarte como presidenta del Perú.

- ◯ Cuba
- ◯ México
- ◯ Chile
- ◯ Colombia
- ◯ Argentina

Quitar selección

Pregunta 86 - Actualidad
Puntúa como: 5.80

. Después de más de un año, al fin se logró el consenso para elegir el nuevo defensor del pueblo. ¿Dicha función recayó en la persona de?

- ◯ Zoraida Ávalos Rivera
- ◯ Josué Gutiérrez Cóndor
- ◯ Ernesto Blume Fortini
- ◯ Vicente Romero Fernández
- ◯ Javier Arévalo Vela

Quitar selección

Pregunta 87 - Actualidad
Puntúa como: 5.80

2h 53m 50s

NAVEGACIÓN DE LA EVALUACIÓN VIRTUAL
DECIMOSEGUNDO SIMULACRO DE APTITUD ACADÉMICA Y HUMANIDADES_SUN 2023

1	2	3	4	5	6	7	8	9	10	11	12	13
14	15	16	17	18	19	20	21	22	23	24	25	26
27	28	29	30	31	32	33	34	35	36	37	38	39
40	41	42	43	44	45	46	47	48	49	50	51	52
53	54	55	56	57	58	59	60	61	62	63	64	65
66	67	68	69	70	71	72	73	74	75	76	77	78
79	80	81	82	83	84	85	86	87	88	89	90	91
92	93	94	95	96	97	98	99	100				

Raz. Matemático
Raz. Verbal
Historia del Perú y del Mundo
Geografía
Economía
Educación Cívica
Actualidad
Psicología
Comunicación y Lengua
Literatura
Filosofía
Lógica
Inglés

Los mayores casos de dengue que está afectando a Sudamérica se ubican principalmente en los países amazónicos. Señale la alternativa con el país menos afectación por esta enfermedad.

- ○ Argentina
- ○ Paraguay
- ○ Bolivia
- ○ Brasil
- ○ Chile

Quitar selección

NAVEGACIÓN DE LA EVALUACIÓN VIRTUAL
DECIMOSEGUNDO SIMULACRO DE APTITUD ACADÉMICA Y HUMANIDADES_SUN 2023

1	2	3	4	5	6	7	8	9	10	11	12	13
14	15	16	17	18	19	20	21	22	23	24	25	26
27	28	29	30	31	32	33	34	35	36	37	38	39
40	41	42	43	44	45	46	47	48	49	50	51	52
53	54	55	56	57	58	59	60	61	62	63	64	65
66	67	68	69	70	71	72	73	74	75	76	77	78
79	80	81	82	83	84	85	86	87	88	89	90	91
92	93	94	95	96	97	98	99	100				

Raz. Matemático
Raz. Verbal
Historia del Perú y del Mundo
Geografía
Economía
Educación Cívica
Actualidad
Psicología
Comunicación y Lengua
Literatura
Filosofía
Lógica
Inglés

Pregunta 88 - Psicología
Puntúa como: 5.80

Señale las expresiones correctas respecto a la percepción.

I. Puede existir percepción en ausencia de estímulo.
II. Percibir es la base para la elaboración de sensaciones complejas.
III. El paso del tiempo no es una sensación, es una percepción.
IV. La imagen mental no solo es visual, puede ser acústica, táctil, entre otros.
V. Las experiencias acumuladas influyen sobre la percepción.

- ○ III, IV y V
- ○ I y IV
- ○ I, II y III
- ○ II y IV
- ○ Solo IV

Quitar selección

Pregunta 89 - Comunicación y Lengua
Puntúa como: 5.80

Reconozca la serie que solo contiene sustantivos colectivos.

- ○ abecedario - planta - raíz
- ○ resma - clero - piara
- ○ gente - lago - caserío
- ○ pollería - árboles - navío
- ○ aldea - caserío - jueces

Quitar selección

Pregunta 90 - Comunicación y Lengua
Puntúa como: 5.80

Señale el par de palabras correctamente escritas.

- ○ hermitaño - herege
- ○ idiosincrasia - lideresa
- ○ obseción - exzudar
- ○ gerigonza - atravezar
- ○ negligensia - vayeta

Quitar selección

Pregunta 91 - Comunicación y Lengua
Puntúa como: 5.80

2h 53m 50s

Elija la alternativa que presenta el complemento atributo.

- ◯ Por las mañanas, el hábil niño está en las aulas de la academia.
- ◯ Muy feliz parece aquel sacrificado obrero de esa fábrica.
- ◯ Los jóvenes universitarios opinaron serios en el auditorio
- ◯ Pifiaron indignados a la responsable del desastre económico.
- ◯ Las alumnas del colegio lograron un experimento muy valioso.

Quitar selección

NAVEGACIÓN DE LA EVALUACIÓN VIRTUAL
DECIMOSEGUNDO SIMULACRO DE APTITUD ACADÉMICA Y HUMANIDADES_SUN 2023

1	2	3	4	5	6	7	8	9	10	11	12	13
14	15	16	17	18	19	20	21	22	23	24	25	26
27	28	29	30	31	32	33	34	35	36	37	38	39
40	41	42	43	44	45	46	47	48	49	50	51	52
53	54	55	56	57	58	59	60	61	62	63	64	65
66	67	68	69	70	71	72	73	74	75	76	77	78
79	80	81	82	83	84	85	86	87	88	89	90	91
92	93	94	95	96	97	98	99	100				

Raz. Matemático
Raz. Verbal
Historia del Perú y del Mundo
Geografía
Economía
Educación Cívica
Actualidad
Psicología
Comunicación y Lengua
Literatura
Filosofía
Lógica
Inglés

Pregunta 92 - Literatura
Puntúa como: 5.80

Escribió Hamlet, El mercader de Venecia y es considerado uno de los escritores más destacados del Renacimiento.

- ◯ Tomás Moro
- ◯ Torquato Tasso
- ◯ William Shakespeare
- ◯ Ludovico Ariosto
- ◯ Francesco Petrarca

Quitar selección

Pregunta 93 - Literatura
Puntúa como: 5.80

Elija las características del vanguardismo europeo.
I. Experimentación e innovación formal
II. Uso de elementos alegóricos.
III. Visión universal del hombre
IV. Preferencia por la técnica tradicional

- ◯ I, II y IV
- ◯ II, III y IV
- ◯ I, II y III
- ◯ I, II, III y IV
- ◯ I y II

Quitar selección

Pregunta 94 - Filosofía
Puntúa como: 5.80

Según Popper, el Psicoanálisis y el Materialismo dialéctico no poseen un status científico, dado que sus enunciados

- ◯ carecen de sentido.
- ◯ son antifilosóficos.
- ◯ son refutables.
- ◯ no son falseables
- ◯ son inverificables.

Quitar selección

Pregunta 95 - Filosofía
Puntúa como: 5.80

2h 53m 50s

Relacione correctamente.
I. Lo bueno es la buena voluntad.
II. El fin de la vida es la felicidad.
III. Lo bueno es vivir según la naturaleza.
IV. El bien está en el bienestar para la mayoría.
a. aristotelismo
b. utilitarismo
c. kantismo
d. estoicismo

- ○ Ic, IId, IIIb, IVa
- ○ Ic, IIa, IIId, IVb
- ○ Ia, IIb, IIIc, IVd
- ○ Id, IIc, IIIb, IVa
- ○ Ia, IIc, IIId, IVb

Quitar selección

NAVEGACIÓN DE LA EVALUACIÓN VIRTUAL
DECIMOSEGUNDO SIMULACRO DE APTITUD ACADÉMICA Y HUMANIDADES_SUN 2023

1	2	3	4	5	6	7	8	9	10	11	12	13
14	15	16	17	18	19	20	21	22	23	24	25	26
27	28	29	30	31	32	33	34	35	36	37	38	39
40	41	42	43	44	45	46	47	48	49	50	51	52
53	54	55	56	57	58	59	60	61	62	63	64	65
66	67	68	69	70	71	72	73	74	75	76	77	78
79	80	81	82	83	84	85	86	87	88	89	90	91
92	93	94	95	96	97	98	99	100				

Raz. Matemático
Raz. Verbal
Historia del Perú y del Mundo
Geografía
Economía
Educación Cívica
Actualidad
Psicología
Comunicación y Lengua
Literatura
Filosofía
Lógica
Inglés

Pregunta 96 - Lógica
Puntúa como: 5.80

La negación de “algún ateo es creyente” es

- ○ todo ateo es creyente.
- ○ todo ateo es creyente.
- ○ ningún ateo es creyente.
- ○ algún ateo no es creyente.
- ○ todo creyente es ateo.

Quitar selección

Pregunta 97 - Inglés
Puntúa como: 5.80

I know a great little restaurant ..... we can get lunch

- ○ that
- ○ who
- ○ where
- ○ whose
- ○ what

Quitar selección

Pregunta 98 - Inglés
Puntúa como: 5.80

Sam knows a man ..... brother works for the president.

- ○ who
- ○ whose
- ○ whom
- ○ that
- ○ where

Quitar selección

Pregunta 99 - Inglés
Puntúa como: 5.80

Students ..... study hard get good grades

- ○ when

2h 53m 50s

- ◯ whom
- ◯ who
- ◯ where
- ◯ whose

Quitar selección

Pregunta 100 - Inglés

Puntúa como: 5.80

Food ..... is imported from other countries is expensive.

- ◯ that
- ◯ where
- ◯ why
- ◯ whose
- ◯ whom

Quitar selección

NAVEGACIÓN DE LA EVALUACIÓN VIRTUAL
DECIMOSEGUNDO SIMULACRO DE APTITUD ACADÉMICA Y HUMANIDADES_SUN 2023

1	2	3	4	5	6	7	8	9	10	11	12	13
14	15	16	17	18	19	20	21	22	23	24	25	26
27	28	29	30	31	32	33	34	35	36	37	38	39
40	41	42	43	44	45	46	47	48	49	50	51	52
53	54	55	56	57	58	59	60	61	62	63	64	65
66	67	68	69	70	71	72	73	74	75	76	77	78
79	80	81	82	83	84	85	86	87	88	89	90	91
92	93	94	95	96	97	98	99	100				

Raz. Matemático
Raz. Verbal
Historia del Perú y del Mundo
Geografía
Economía
Educación Cívica
Actualidad
Psicología
Comunicación y Lengua
Literatura
Filosofía
Lógica
Inglés

2h 53m 50s